Mnożenie w zakresie 0 - 30.

1. Jakich liczb brakuje?

3 · 2 = □	2 · □ = 18	□ · 3 = 9
5 · 6 = □	4 · □ = 16	□ · 2 = 12
4 · 3 = □	3 · □ = 15	□ · 7 = 21

2. Uzupełnij grafy.

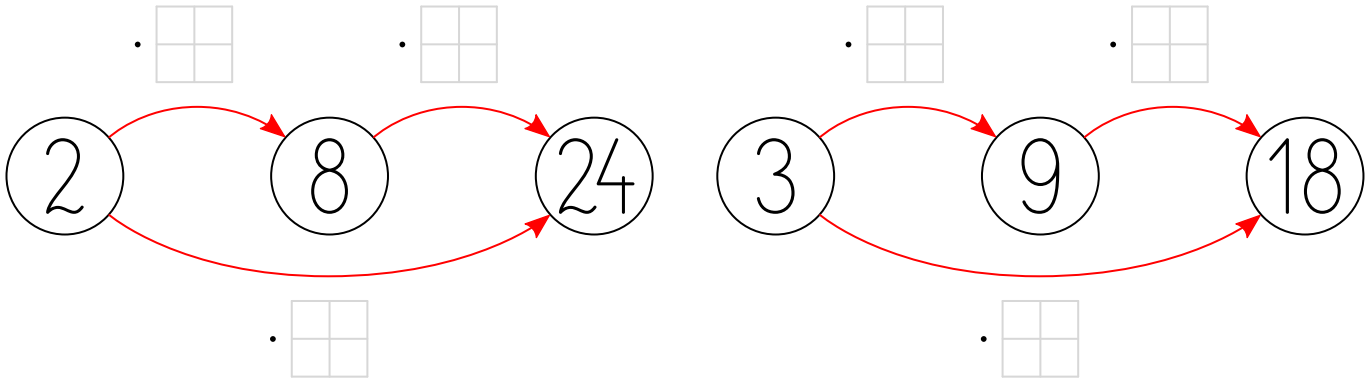

3. Uzupełnij krzyżówkę liczbową.
Wstaw w puste miejsca takie liczby, aby uzyskać prawdziwe równości.

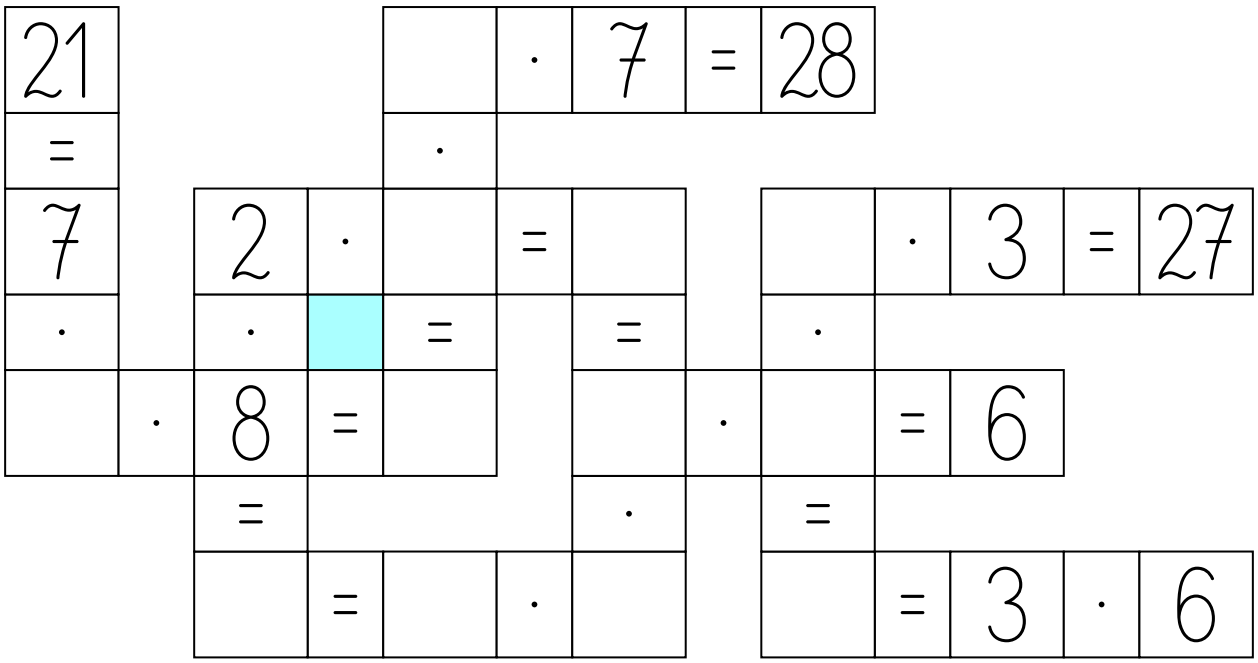

© Wszelkie prawa zastrzeżone
All rights reserved

Mnożenie w zakresie 0 - 30.

1. Jakich liczb brakuje?

3 · 2 = 6	2 · 9 = 18	3 · 3 = 9
5 · 6 = 30	4 · 4 = 16	6 · 2 = 12
4 · 3 = 12	3 · 5 = 15	3 · 7 = 21

2. Uzupełnij grafy.

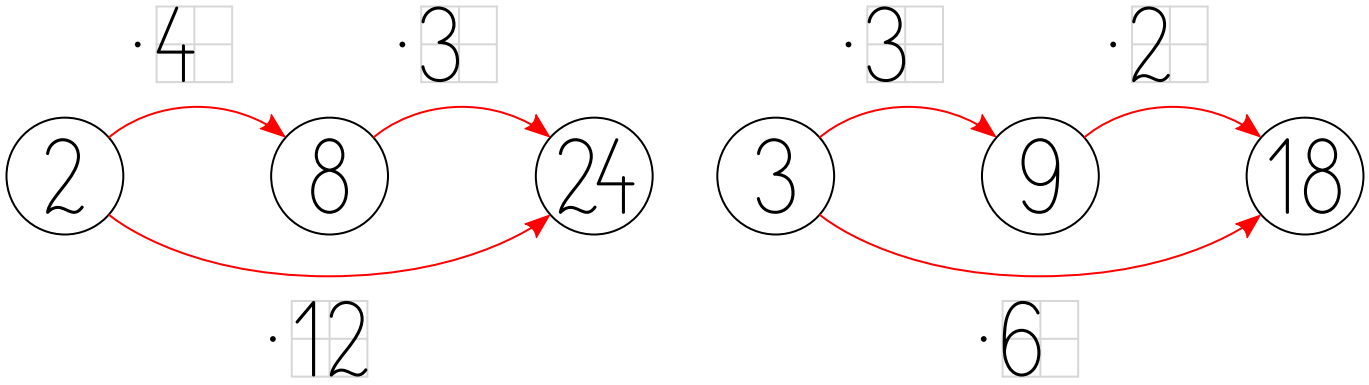

2. Uzupełnij krzyżówkę liczbową.
Wstaw w puste miejsca takie liczby, aby uzyskać prawdziwe równości.

21					4	·	7	=	28					
=					·									
7		2	·	6	=	12			9	·	3	=	27	
·		·		=		=			·					
3	·	8	=	24		3	·		2	=	6			
		=				·			=					
		16	=	4	·	4			18	=	3	·	6	

© Wszelkie prawa zastrzeżone
All rights reserved